Prénom : _____ Date : _____

Géométrie : Identifier et tracer des quadrilatères

CM2

Fiche d'exercices n° 7
Leçon 4

Exercice 1 : On a commencé à tracer un rectangle ABCD.
Termine la construction à l'aide des instruments de ton choix.
N'oublie pas de placer le point C manquant.

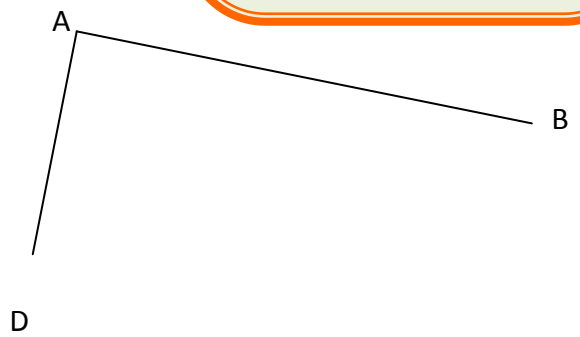

Exercice 2 : On a commencé à tracer un carré FGHI.
Termine la construction à l'aide des instruments de ton choix.
N'oublie pas de placer le point I manquant.

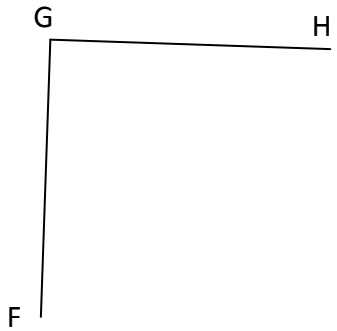

Exercice 3 : On a commencé à tracer un losange OGVD.
Termine la construction à l'aide des instruments de ton choix.
N'oublie pas de placer le point V manquant.

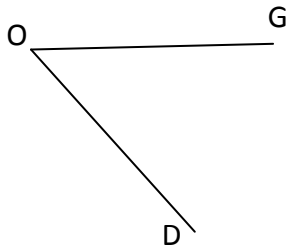

Exercice 4 : Dans cette figure, **repère** un carré en repassant ses côtés en rouge.
Repère un losange en repassant ses côtés en vert.
Repère un trapèze en repassant ses côtés en bleu.

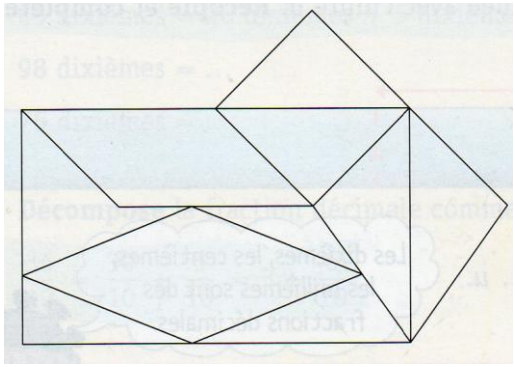

Exercice 5 : Dans cette figure, repère un carré, un rectangle, un losange et un parallélogramme.
Nomme-les en utilisant les lettres qui désignent leurs quatre sommets.

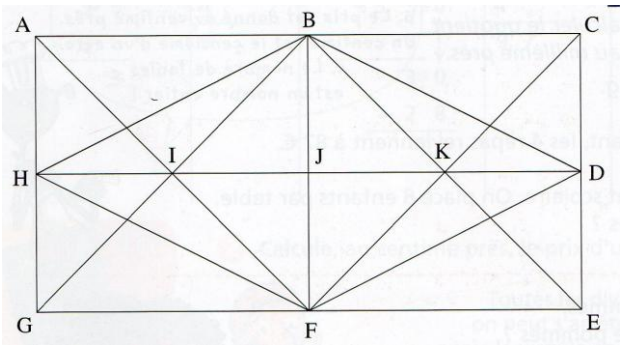
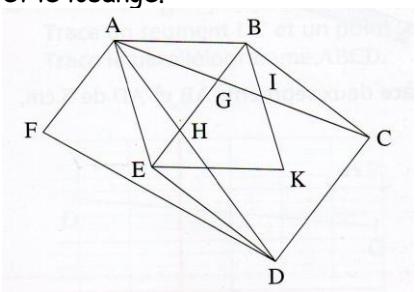
Exercice 6 : Dans cette figure, **trouve** le carré et le losange.